平成27年学力検査

全　日　制　課　程　B

第 3 時限問題

社　　会

検査時間　11時10分から11時50分まで

「解答始め」という指示があるまで，次の注意をよく読みなさい。

注　　意

(1) 解答用紙は，この問題用紙とは別になっています。

(2) 「解答始め」という指示で，すぐ学科名と受検番号をこの表紙と解答用紙の決められた欄に書きなさい。

(3) 問題は(1)ページから(10)ページまであります。表紙の裏と(10)ページの次からは白紙になっています。受検番号などを記入したあと，問題の各ページを確かめ，不備のある場合は手をあげて申し出なさい。

(4) 答えはすべて解答用紙の決められた欄に書きなさい。

(5) 印刷の文字が不鮮明なときは，手をあげて質問してもよろしい。

(6) 「解答やめ」という指示で，書くことをやめ，解答用紙と問題用紙を別々にして机の上に置きなさい。

学科名	科	受検番号	第　　番

社　　会

1 次の資料を読んで，あとの(1)から(3)までの問いに答えなさい。

黒田清輝「湖畔」の絵	左の絵は，画家の（　　）が，のちに妻となる人物をモデルにして描いたものです。作品のタイトルは「湖畔」といい，神奈川県①にある芦ノ湖のほとりで描かれたものです。 この絵が描かれた1897年には，わが国では軽工業の分野で産業革命②が進んでいました。

(1) 資料中の（　　）にあてはまる人名として最も適当なものを，次の**ア**から**エ**までの中から選んで，そのかな符号を書きなさい。

ア 夏目漱石（なつめそうせき）　**イ** 野口英世（のぐちひでよ）　**ウ** 黒田清輝（くろだせいき）　**エ** 滝廉太郎（たきれんたろう）

(2) 現在の神奈川県①の県域には，ある幕府がおかれていたが，その時代に起こったできごとについて述べた文として最も適当なものを，次の**ア**から**カ**までの中から選んで，そのかな符号を書きなさい。

ア 「源氏物語」や「枕草子」などのすぐれた文学作品が生まれた。

イ 神話や伝承などをもとにまとめた歴史書の「古事記」や「日本書紀」がつくられた。

ウ 百姓の抵抗を防ぐために，百姓から刀・やりなどの武器を取り上げる刀狩が行われた。

エ 武士の社会で行われていた慣習などにもとづいて，御成敗式目が定められた。

オ 山城（京都府）南部では，武士と農民が守護大名を追い払う山城国一揆が起こった。

カ 政治を進めていくうえで民衆の意見を参考にするために，目安箱が設置された。

(3) 次の文章は，産業革命②の進展について述べたものである。文章中の（　　）にあてはまる最も適当なことばを，漢字２字で書きなさい。なお，文章中の２か所の（　　）には，同じことばがあてはまる。

> 産業革命が進む中で，政府から鉱山や工場の払い下げを受けた企業の中には，金融，貿易，鉱工業などの事業を多角的に経営して，日本の経済を支配する（　　）に成長していくものもあった。三井（みつい）・三菱（みつびし）・住友（すみとも）などは，その代表的な例である。第二次世界大戦後，ＧＨＱは，（　　）を戦争への協力勢力とみて，その解体を命じた。

2 次のⅠ，Ⅱは，「日本と海外とのつながり」という大きなテーマの中で，生徒が班ごとに設定した研究テーマについて発表したときの資料の一部である。あとの(1)から(4)までの問いに答えなさい。

Ⅰ　1班から4班までの研究テーマ

1班	「国際連盟①の設立」　～国際協調と日本の役割～
2班	「［　X　］」　～堺，博多と中国の寧波（ニンポー）との間の銅銭の流れ～
3班	「国宝建造物にみる文化の特色」　～同じ寺院にある異なる時代の文化遺産～
4班	「欧米諸国との貿易開始」　～国内の生糸の価格②はなぜ上昇したか～

Ⅱ　3班が発表に用いた国宝建造物の写真

東大寺正倉院の写真

東大寺南大門の写真

(1) 国際連盟①が設立された年代とほぼ同じ時期に起こったできごとについて述べた文として最も適当なものを，次のアからエまでの中から選んで，そのかな符号を書きなさい。

ア　インドネシアのバンドンで，アジア・アフリカ会議が開催され，平和共存が訴えられた。

イ　ワシントン会議が開催され，各国の海軍の軍備を制限する条約などが結ばれた。

ウ　北大西洋条約機構（ＮＡＴＯ）に対抗してワルシャワ条約機構がつくられた。

エ　アメリカとイギリスの首脳が会談し，国際社会の新たな原則として大西洋憲章が発表された。

(2) ［　X　］にあてはまることばとして最も適当なものを，次のアからカまでの中から選んで，そのかな符号を書きなさい。

ア　元への輸出品　　イ　元からの輸入品

ウ　明への輸出品　　エ　明からの輸入品

オ　清への輸出品　　カ　清からの輸入品

(3) 次の文章は，３班がⅡの写真をもとに発表したときのメモの一部である。文章中の（　　）にあてはまる最も適当な寺院名を，漢字３字で書きなさい。

また，文章中の［　Y　］と［　Z　］にあてはまる文の組み合わせとして最も適当なものを，下のアからカまでの中から選んで，そのかな符号を書きなさい。

> この２点の写真は，いずれも奈良県の（　　）にある国宝建造物を写したものです。左の正倉院が建てられたころのわが国の文化は，［　Y　］。また，右の南大門が建てられたころのわが国の文化は，［　Z　］。

ア　Y：国際色豊かな文化で，インドや西アジアから唐にもたらされた文化の影響も見られます
　　Z：武士や民衆の気風が反映された文化で，宋から伝わった建築様式の建物も見られます

イ　Y：国際色豊かな文化で，インドや西アジアから唐にもたらされた文化の影響も見られます
　　Z：日本の風土や生活，感情にあった文化で，仮名文字も発達しました

ウ　Y：武士や民衆の気風が反映された文化で，宋から伝わった建築様式の建物も見られます
　　Z：国際色豊かな文化で，インドや西アジアから唐にもたらされた文化の影響も見られます

エ　Y：武士や民衆の気風が反映された文化で，宋から伝わった建築様式の建物も見られます
　　Z：日本の風土や生活，感情にあった文化で，仮名文字も発達しました

オ　Y：日本の風土や生活，感情にあった文化で，仮名文字も発達しました
　　Z：武士や民衆の気風が反映された文化で，宋から伝わった建築様式の建物も見られます

カ　Y：日本の風土や生活，感情にあった文化で，仮名文字も発達しました
　　Z：国際色豊かな文化で，インドや西アジアから唐にもたらされた文化の影響も見られます

(4) 次の文章は，４班が国内の生糸の価格はなぜ上昇したか②について発表したときのメモの一部である。発表では，この文章の内容を説明するために，1860年から1865年までの１年ごとの推移がわかる２種類のグラフを用いた。下のａ，ｂ，ｃ，ｄのうち，このときに用いた２種類のグラフの組み合わせとして最も適当なものを，あとのアからカまでの中から選んで，そのかな符号を書きなさい。

> 貿易が始まると，日本からは生糸などが大量に輸出され始めました。そのため，生糸は生産が追いつかず，国内では品不足となり生糸の価格は上昇しました。

ａ　日本の輸出量全体に占める生糸の輸出量の割合の推移を示したグラフ

ｂ　日本の生糸の輸出量の推移を示したグラフ

ｃ　国内における生糸の価格の推移を示したグラフ

ｄ　国内における糸の生産量全体に占める生糸の生産量の割合の推移を示したグラフ

ア　ａ，ｂ　　イ　ａ，ｃ　　ウ　ａ，ｄ

エ　ｂ，ｃ　　オ　ｂ，ｄ　　カ　ｃ，ｄ

3 次のⅠの略地図は，青森県を示したものであり，Ⅱのグラフは，弘前市および八戸市の月別平均気温と月別降水量をそれぞれ示したものである。また，Ⅲの表は，青森県，石川県，静岡県，鹿児島県の４県の人口などについて示したものであり，Ⅳの図は，それぞれⅢの表中の４県のいずれかの県章である。あとの(1)から(4)までの問いに答えなさい。

なお，Ⅱの月別平均気温を示したグラフ中のW，Xと，月別降水量を示したグラフ中のY，Zは，それぞれ弘前市，八戸市のいずれかである。また，Ⅲの表中のA，B，C，DおよびⅣのa，b，c，dの図は，それぞれ青森県，石川県，静岡県，鹿児島県のいずれかを示している。

Ⅰ　青森県の略地図

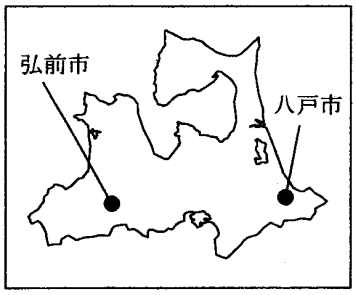

Ⅱ　弘前市および八戸市の月別平均気温と月別降水量

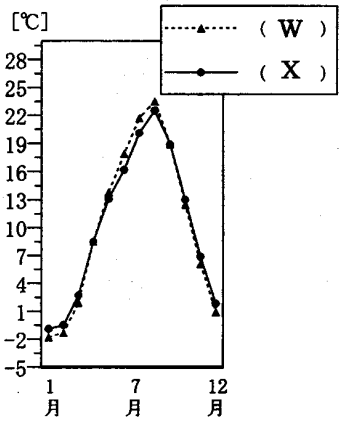

弘前市，八戸市の月別平均気温

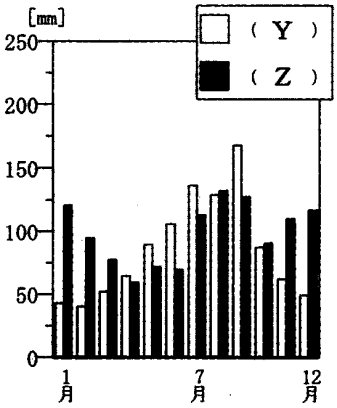

弘前市，八戸市の月別降水量

（気象庁ホームページ「気象統計情報」による）

Ⅲ　４県の人口，農業就業人口，農業産出額

県名	人口 (千人)	農業就業人口 (人)	農業産出額 (億円)						
				米	野菜	果実	花き	畜産	その他
A	3 765	70 867	2 127	213	566	296	176	389	487
B	1 706	74 364	4 069	248	506	91	135	2 377	712
C	1 373	80 483	2 804	535	616	751	22	776	104
D	1 170	22 374	556	315	92	21	7	94	27

（「データでみる県勢　2014年版」をもとに作成）

Ⅳ　４県の県章

a

b

c

d

(1) 次の文章は，生徒がⅠの略地図を参考にⅡのグラフを読み取り，正解を導いたときのメモである。この文章中の（ ① ），（ ② ）にあてはまることばの組み合わせとして最も適当なものを，下のアからエまでの中から選んで，そのかな符号を書きなさい。なお，文章中の２か所の（ ② ）には，同じことばがあてはまる。

> 夏に（ ① ）からの季節風であるやませが吹くことがあるため，夏の気温は弘前市より八戸市の方が低いと考えられる。したがって，Wが弘前市でありXが八戸市である。また（ ② ）の降水量は，一般に日本海側の方が太平洋側より多いので，八戸市の方が弘前市より（ ② ）の降水量が少ないと考えられる。よって，Yが八戸市でありZが弘前市である。

ア ① 南西， ② 冬　　イ ① 南西， ② 夏
ウ ① 北東， ② 冬　　エ ① 北東， ② 夏

(2) Ⅲの表中のAからDまでの県のうち，世界自然遺産に登録されている屋久島を含む県について述べた文として最も適当なものを，次のアからエまでの中から選んで，そのかな符号を書きなさい。

ア ４県の中でこの県は，農業産出額に占める米の産出額の割合が最も高い。
イ ４県の中でこの県は，畜産の産出額が農業産出額の半分以上を占めている。
ウ ４県の中でこの県は，人口に占める農業就業人口の割合が最も高い。
エ ４県の中でこの県は，野菜，花きの産出額がそれぞれ上位２位のうちに入っている。

(3) 次の文章は，Ⅲの表中のAについて述べたものである。文章中の（　　）にあてはまる最も適当なことばを，漢字１字で書きなさい。なお，文章中の２か所の（　　）には，同じことばがあてはまる。

> この県では，（　　）の栽培がさかんであり，2012年におけるその収穫量は，全国一である。（　　）は，日米修好通商条約などにもとづいて，わが国と欧米諸国との貿易が始まった当初，生糸に次いでわが国の２番目に多い輸出品であった。

(4) 次の文章は，Ⅳに示した県章について述べたものである。文章中の（ ③ ）にあてはまる符号として最も適当なものを，aからdまでの中から選んで，その符号を書きなさい。また，文章中の（ ④ ）にあてはまる都市名を，漢字で書きなさい。

> Ⅳに示した県章は，それぞれの県の地形をデザイン化したものである。Ⅳにおいて能登半島がデザイン化されている県章は（ ③ ）であり，その県の県庁所在地は，（ ④ ）市である。

4 次のⅠの略地図は，経線と緯線が直角に交わるように描いたものであり，Ⅱの表は，世界の各州の人口の推移と人口予測を示している。また，Ⅲの表は，世界の各州の15歳未満人口の全人口に占める割合の推移と予測，Ⅳの表は，世界の各州の65歳以上人口の全人口に占める割合の推移と予測を示したものである。あとの(1)，(2)の問いに答えなさい。

なお，Ⅲ，Ⅳの表中のA，B，Cは，同じ州名があてはまり，それぞれアジア州，アフリカ州，ヨーロッパ州のいずれかである。

Ⅰ　経線と緯線が直角に交わるように描いた略地図

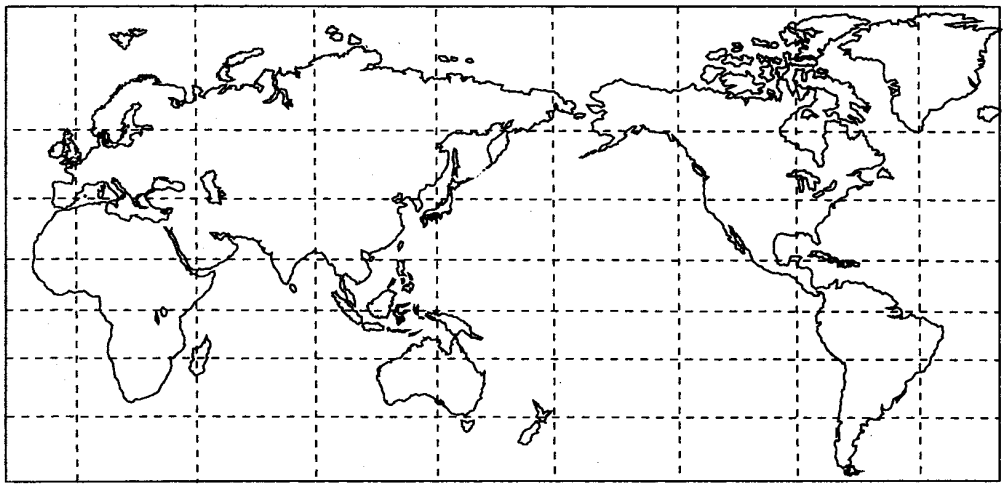

Ⅱ　世界の各州の人口の推移と人口予測　　（単位　百万人）

州名＼年	1990	2000	2010	2020	2030	2040	2050
アジア州	3 213	3 717	4 165	4 582	4 887	5 080	5 164
ヨーロッパ州	723	729	740	744	736	724	709
アフリカ州	630	808	1 031	1 312	1 634	1 999	2 393
北アメリカ州	432	493	549	603	652	692	723
南アメリカ州	296	348	394	435	468	491	505
オセアニア州	27	31	37	42	47	52	57

（総務省統計局「世界の統計 2013」による）

Ⅲ　世界の各州の15歳未満人口の全人口に占める割合の推移と予測　　（単位　%）

州名＼年	1990	2000	2010	2020	2030	2040	2050
A	44.5	42.4	41.1	39.8	37.1	34.6	32.2
南アメリカ州	35.3	30.9	26.9	23.2	20.7	18.6	17.1
B	34.0	30.5	25.4	23.5	20.9	19.0	17.9
北アメリカ州	27.3	25.9	23.5	21.7	20.3	19.0	18.2
オセアニア州	26.7	25.7	24.0	23.5	22.2	21.0	20.4
C	20.5	17.6	15.4	16.0	15.3	14.9	15.4

（国際連合人口部「World Population Prospects, The 2012 Revision」をもとに作成）

Ⅳ　世界の各州の65歳以上人口の全人口に占める割合の推移と予測　　（単位　%）

州名＼年	1990	2000	2010	2020	2030	2040	2050
C	12.7	14.7	16.3	18.9	22.4	25.0	26.9
オセアニア州	9.1	9.9	10.7	13.0	15.3	16.9	17.9
南アメリカ州	5.0	5.8	7.0	9.2	12.6	15.9	19.9
B	5.0	5.8	6.8	8.8	11.6	14.9	17.4
北アメリカ州	4.9	9.0	9.5	13.5	16.8	18.9	20.4
A	3.2	3.3	3.4	3.6	4.1	4.7	5.9

（国際連合人口部「World Population Prospects, The 2012 Revision」をもとに作成）

(1) 次の文章は，ある緯線について説明したものである。この緯線と本初子午線を，それぞれ略地図中の破線をなぞって実線で書きなさい。

> この緯線上を本初子午線と交わる地点から東にむかって進むと，熱帯雨林気候の地域を通過し，世界三大洋の一つに達する。さらに東に進むと，アジア州で３番目に人口の多い国を横断し，太平洋に出る。太平洋を横断して到達した大陸において，アマゾン川の河口付近を通過してさらに大西洋上を東に進み，元の地点に戻る。

(2) Ⅲ，Ⅳの表中のCの中に位置する国について述べた文として最も適当なものを，次の**ア**から**カ**までの中から選んで，そのかな符号を書きなさい。

ア　ロシアに次いで世界で２番目に面積が広いこの国では，国民の多数はイギリス系住民であるが，フランス系住民も多いことから，英語とフランス語が公用語となっている。

イ　アルプス山脈の山岳国であるこの国では，乳牛や山羊などを飼育して，バターやチーズなどの乳製品を生産する酪農がさかんに行われている。

ウ　アンデス山脈の中央部にあるこの国では，作物の育たない標高4000メートルをこえる地域において，リャマやアルパカの放牧が行われている。

エ　南北にのびるマレー半島などに位置するこの国では，天然ゴムやコーヒーなどを大規模に栽培するために，植民地の時代にプランテーションが開かれた。

オ　大陸の南端に位置するこの国では，20世紀末までアパルトヘイトとよばれる人種隔離政策をとってきたが，現在は廃止され，すべての人種が共存できる社会の実現を目指している。

カ　2011年において人口の３倍以上の羊を飼育しているこの国では，先住民族のアボリジニ（アボリジニー）が住んでおり，国内には彼らが聖地としている山がある。

5 次の４枚のカードは，生徒が地球規模の課題について学習する際にまとめたものの一部である。あとの(1)から(4)までの問いに答えなさい。

> 多くの発展途上国①では，人々が飢餓に直面している一方，一部の先進国では，消費しきれない食料を廃棄しているなど，食料問題には先進国としても取り組むべき課題があります。

> 地域紛争に対して，国際連合②がその解決のための努力をしていますが，経済的または軍事的な制裁だけでなく，貧富の差の改善など，より根本的な対策も求められています。

> 私たちは，深刻化する環境問題③を解決するために，環境に負荷をかけない生活をどう送るのかについて深く考え，身近にできることから取り組む必要があります。

> グローバル化④が進展する中で，さまざまな国の人々が共存し，尊重し合う多文化共生社会の実現が強く求められています。

(1) 次のⅠの表は，ある生徒が発展途上国①について調べた際に，日本からの政府開発援助（ＯＤＡ）が多い４国の１人あたりの国民総所得，1000人あたりの乳児死亡率，100人あたりの自動車保有台数をまとめたものであり，下のⅡの文は，Ⅰの表中のＡ，Ｂ，Ｃ，Ｄの４国について述べたものである。Ⅰの表およびⅡの文からわかることとして最も適当なものを，あとの**ア**から**エ**までの中から選んで，そのかな符号を書きなさい。なお，ⅠおよびⅡのＡ，Ｂ，Ｃ，Ｄは，同じ国名があてはまり，それぞれアフガニスタン，イラク，インド，ベトナムのいずれかである。

Ⅰ　日本からの政府開発援助が多い４国の１人あたりの国民総所得など

国　名	日本からの政府開発援助（百万ドル）	１人あたりの国民総所得（ドル）	1000人あたりの乳児死亡率（人）	100人あたりの自動車保有台数（台）
A	1 647	1 343	17	0.9
B	874	560	73	3.3
C	705	1 514	47	2.0
D	361	2 484	31	4.9

（注）日本からの政府開発援助は，二国間援助額のみを示している。
乳児死亡率は，生存出生児のうち満１歳未満で死亡する人数である。

（「世界国勢図会 2013/14年版」などによる）

Ⅱ　４国について述べた文

> Ａ　冷戦時代，アメリカ軍が介入した激しい内戦の後，南北統一が実現した。
> Ｂ　2001年の同時多発テロを受けてテロとの戦いを宣言したアメリカに，同年，攻撃された。
> Ｃ　パキスタンとの間で領土をめぐって争うとともに，核実験を行った。
> Ｄ　クウェートを侵略後，1991年にアメリカを中心とする多国籍軍による攻撃を受けた。

ア　４国のうち，アフガニスタンは，1000人あたりの乳児死亡率が最も低い。

イ　４国のうち，イラクは，１人あたりの国民総所得が最も多い。

ウ　４国のうち，インドは，100人あたりの自動車保有台数が最も多い。

エ　４国のうち，ベトナムは，日本からの政府開発援助が最も少ない。

(2) 国際連合②について述べた文として最も適当なものを，次の**ア**から**エ**までの中から選んで，そのかな符号を書きなさい。

ア　国際司法裁判所は，国際法に従い，当事国の同意にもとづいて国家間の紛争を解決するための裁判を行う。

イ　安全保障理事会は，全会一致を原則としているので，議決には非常任理事国を含めたすべての理事国の賛成が必要となる。

ウ　平和維持活動（ＰＫＯ）は，侵略国に対して軍事的措置をとるためのものであり，停戦の監視や復興支援は行われない。

エ　国連の通常予算は，加盟国の拠出金でまかなわれているが，その額は加盟国すべて同額に設定されている。

(3) 次の文章は，環境問題③に関して述べたものである。文章中の（　　）にあてはまる最も適当なことばを，漢字５字で書きなさい。

1992年に開かれた国連環境開発会議（地球サミット）では，持続可能な社会（開発）を実現するための具体的な取り組みについて話し合われた。日本でも翌年，公害対策基本法に代わって（　　）が制定され，環境保全への取り組みが強化された。

(4) 経済のグローバル化④について述べた文として最も適当なものを，次の**ア**から**エ**までの中から選んで，そのかな符号を書きなさい。

ア　サミットは従来，新興国を含む20か国で行われていたが，これに加えて，世界経済と金融の安定化について話し合うＧ８サミットが開かれるようになった。

イ　二国間以上で自由貿易協定（ＦＴＡ）などを結び，関税を引き上げて貿易を推進しようとする動きがさかんになっている。

ウ　太平洋沿岸地域では，ＡＰＥＣ（アジア太平洋経済協力会議）が共通通貨を導入して，この地域が一つの大きな国内市場になっている。

エ　2008年に起こった世界金融危機（世界同時不況）は，世界経済に大きな影響を及ぼし，世界の金融市場が一体化していることを明らかにした。

6 次の図は，地方自治のしくみについて模式的に示したものである。あとの(1)から(3)までの問いに答えなさい。

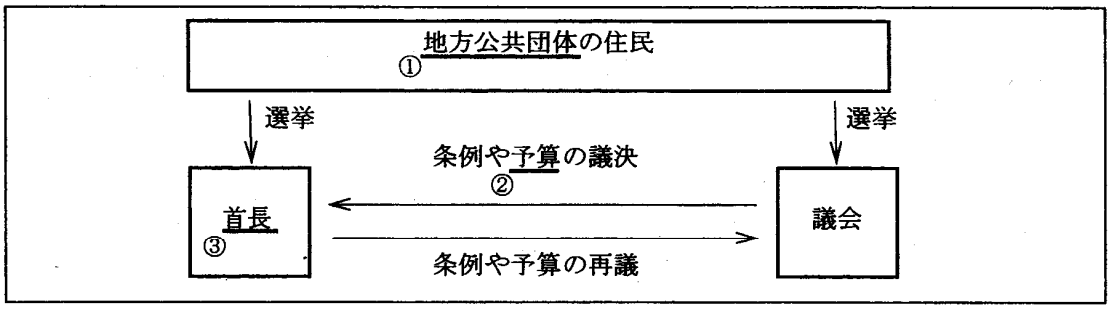

(1) 地方公共団体①について述べた文として誤っているものを，次のアからエまでの中から一つ選んで，そのかな符号を書きなさい。

ア　知る権利を求める動きの中で，住民からの請求により情報を開示する情報公開制度を整備する地方公共団体が増えてきた。

イ　地方分権一括法が成立し，国の仕事の一部を地方公共団体の独自の仕事として国の関与を減らすなど，地方分権が進められている。

ウ　一つの地方公共団体だけに適用される特別法は，その地方公共団体の議会において可決すれば成立する。

エ　市町村合併やゴミ処分場の設置など地域の重要な課題について，地方公共団体が条例にもとづく住民投票を実施する場合がある。

(2) 次の文は，地方公共団体の予算②に関して述べたものである。文中の（　A　），（　B　）にあてはまることばの組み合わせとして最も適当なものを，下のアからエまでの中から選んで，そのかな符号を書きなさい。

> 地方公共団体の予算は，それぞれが集める（　A　）など独自の財源だけでは不足しており，財政格差を解消するために国から配分される（　B　）などで補われている。

ア　A　地方税，　B　地方交付税交付金　　イ　A　地方税，　B　国庫支出金

ウ　A　国税，　B　地方交付税交付金　　エ　A　国税，　B　国庫支出金

(3) 首長③に関する説明として最も適当なものを，次のアからエまでの中から選んで，そのかな符号を書きなさい。

ア　議会が首長の不信任案を可決した場合，首長は必ず辞職しなければならない。

イ　首長は，地方公共団体の長として，予算案や条例案を作成する。

ウ　都道府県知事の被選挙権は，市町村長と同じく満25歳以上である。

エ　市町村長の解職請求（リコール）に必要な署名数は，有権者の過半数である。

（問題はこれで終わりです。）